1.n., 2.n., 3.n. / 2.c.

Takt, rytmus

23. Doplňte taktové čiary.





24. Koľko šestnástinových nôt môžeme zapísať namiesto jednej osminovej noty s bodkou?

a) dve b) tri c) štyri d) šesť e) osem

25. Doplňte taktové čiary.





26. Doplňte neúplné takty ľubovoľnými rytmickými hodnotami. Úloha môže mať viacej správnych riešení.

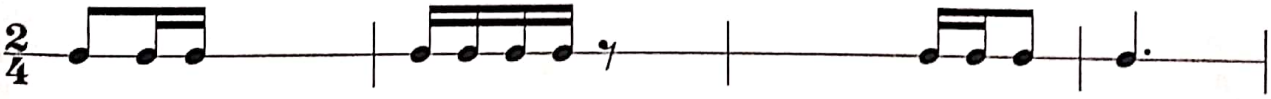

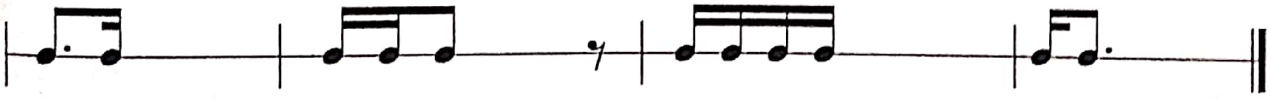

27. Doplňte neúplné takty ľubovoľnými rytmickými hodnotami. Úloha môže mať viacej správnych riešení.



Naskenované pomocou CamScanner